PORTE OUVERTE SUR...

l'éveil

CE livret 1

HACHETTE
CLASSIQUES

1 Grandir / Quel âge avez-vous ?

Arnaud, né le 4 avril 1974. Fils de Barbara

1

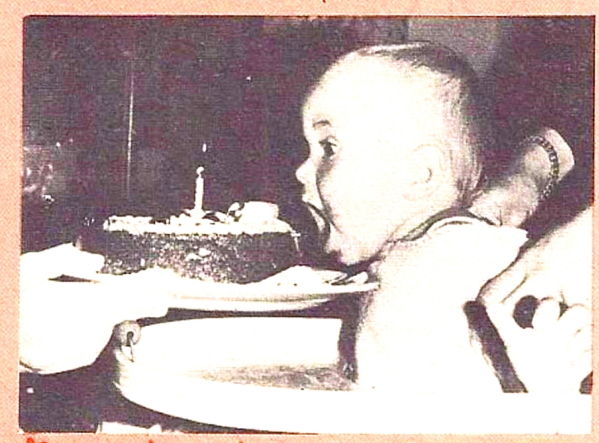

Mon premier anniversaire
4 avril 1975

2

Ma première luge. Février 1976

3



Mes premières vacances à la mer. Septembre 1977

4

Mon premier chien. 4 avril 1978

5



Mon premier cahier. Mars 1979

6

Mes premiers skis. Décembre 1980

I.S.B.N. 2.01.009330.5
© 1983, Hachette
79, bd St-Germain, F 75006 Paris.

1 Grandir/Quel âge avez-vous ?

1 Regardez les photos

1 Quelle est la date de naissance d'Arnaud ?

_____

2 Les photos sont-elles rangées dans l'ordre ? _____

3 Quel âge avait Arnaud au moment de :

a) sa première luge ? _____

b) ses premières vacances à la mer ? _____

c) son premier cahier ? _____

d) ses premiers skis ? _____

4 Arnaud a-t-il reçu un chien pour son anniversaire ? _____

5 Quel âge avait exactement Arnaud quand il a reçu le chien ? _____

2 Trouvez une photo de vous et collez-la dans l'emplacement.

Indiquez :

a) votre date de naissance

_____

b) l'âge que vous avez maintenant

_____

c) (si possible) la date de la photo

_____

d) l'âge que vous avez sur la photo

_____

e) la date de naissance de votre meilleur(e) ami(e)

_____

f) la date de naissance de votre grand-mère

_____

2 Les animaux et leurs petits



1

2



3

1 La femelle kangourou et son petit
2 La laie et ses marcassins
3 La truie et ses porcelets
4 La jument et son poulain
5 La biche et son faon
6 La becquée de la fauvette



4



5

2 Les animaux et leurs petits

1 **Complétez. Comment s'appelle :**

a) la femelle du sanglier

_____

b) la femelle du porc

_____

c) la femelle du cheval

_____

d) la femelle du cerf

_____



6

2 **A chacun son petit. Tracez des flèches.**

1 la laie	**a** le porcelet
2 la truie	**b** le faon
3 le cerf	**c** l'ourson
4 la jument	**d** le marcassin
5 l'âne	**e** le lionceau
6 l'ours	**f** l'ânon
7 le poisson	**g** l'alevin
8 le lion	**h** le poulain

3 **Écrivez VRAI ou FAUX.**

1 Le pelage du marcassin ressemble à celui de la laie _____

2 La femelle du kangourou porte son petit dans une poche de son ventre _____

3 Les porcelets se nourrissent en buvant le lait de leur mère _____

4 Le faon a des bois comme le cerf _____

5 Les oisillons se nourrissent en buvant le lait de leur mère _____

4

AVEZ-VOUS VU ?	OUI ou NON	OÙ ?
a) des porcelets		
b) des éléphanteaux		
c) des chatons		
d) des poulains		
e) des lionceaux		

3 Le temps qui passe

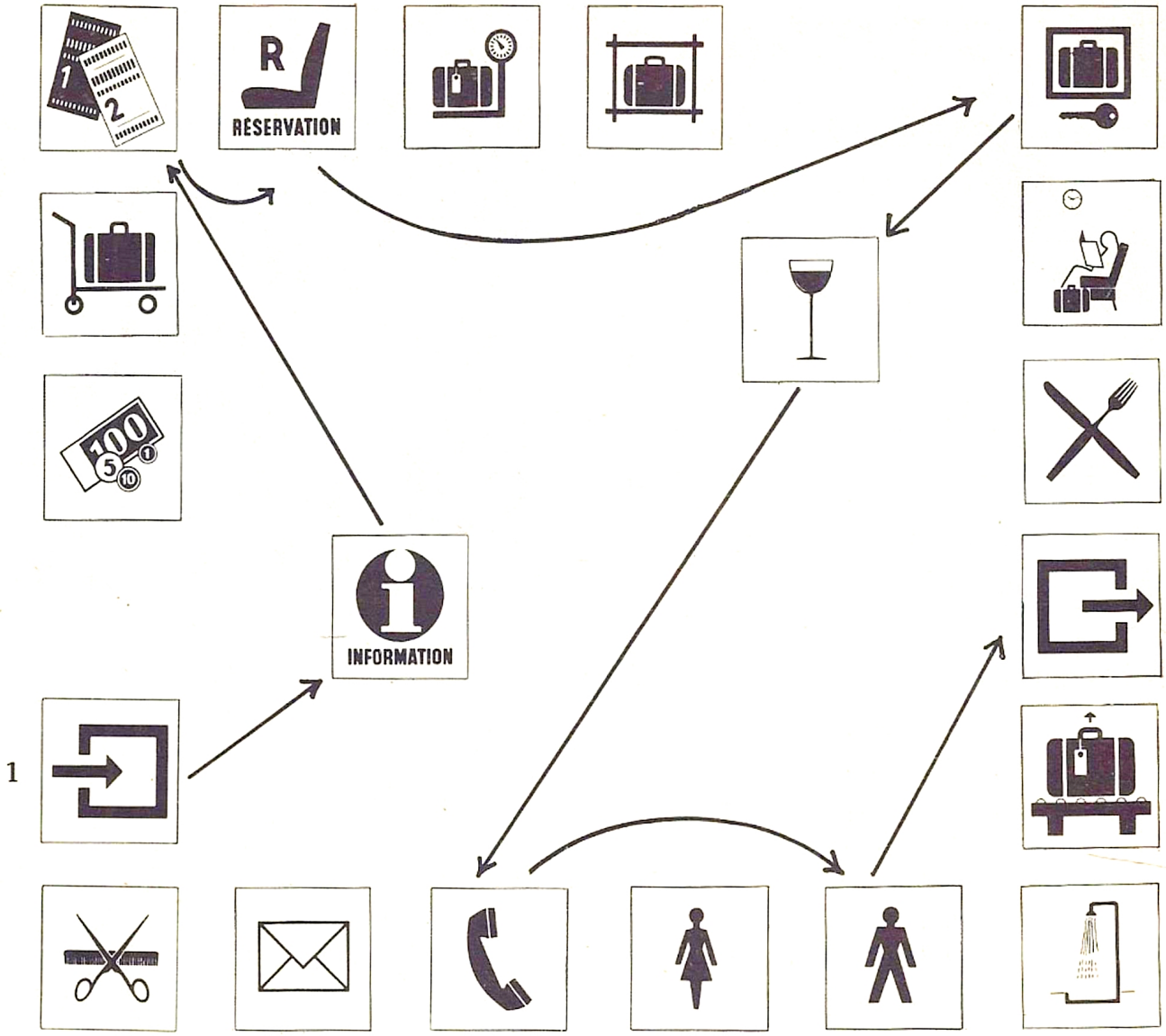

1 Numérotez ce que fait Pierre dans l'ordre où il le fait.

	NUMÉRO
a) Pierre entre dans la gare	1
b) Il achète ses billets au guichet qui est ouvert	
c) Comme il est un peu perdu, il va au bureau d'information	
d) Il a terminé ce qu'il avait à faire et sort de la gare	
e) Il met son gros sac dans une case de la consigne automatique	
f) Il fait très chaud, il va boire une grande limonade	
g) Comme il est prudent, il se réserve une place assise	
h) Quand on a trop bu, on a envie d'aller aux toilettes...	
i) Il prévient sa mère de son heure de départ en lui téléphonant	

3 Le temps qui passe

2 **Mettez, dans les ronds, les chiffres 1, 2, 3, dans l'ordre de l'action.**



○ ○ ○

3 **Complétez en précisant votre classe.**

a) L'année dernière, j'étais _____ b) Cette année, je suis _____

c) L'année prochaine, je serai _____

4 **Si c'est du passé écrivez PA dans la case. Si c'est du présent, PR, du futur, F.**

a) Demain, il faudra aller chercher mon frère à la gare	
b) Il est parti en voyage la semaine dernière	
c) Au téléphone, il me dit qu'il fait beau là-bas	
d) Quand il était petit, il m'embêtait souvent	
e) Dans quelques années, il faudra que j'aille au collège	
f) Aujourd'hui je ne m'ennuie pas beaucoup	

5 **Numérotez de 1 à 3 dans l'ordre chronologique.**





○ ○ ○

4 Qui est où ?

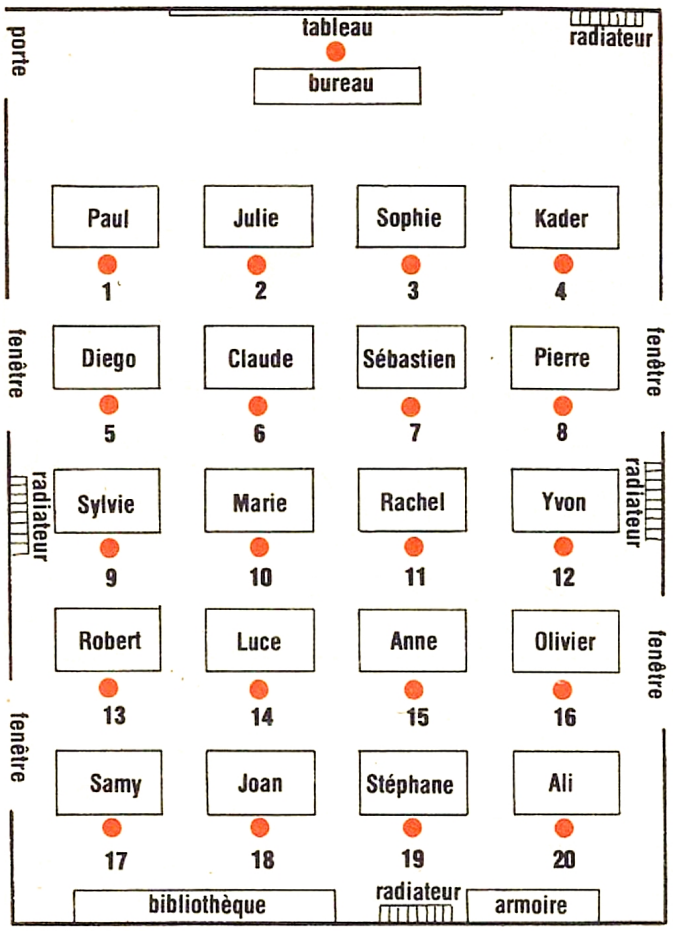

DISPOSITION A



DISPOSITION B

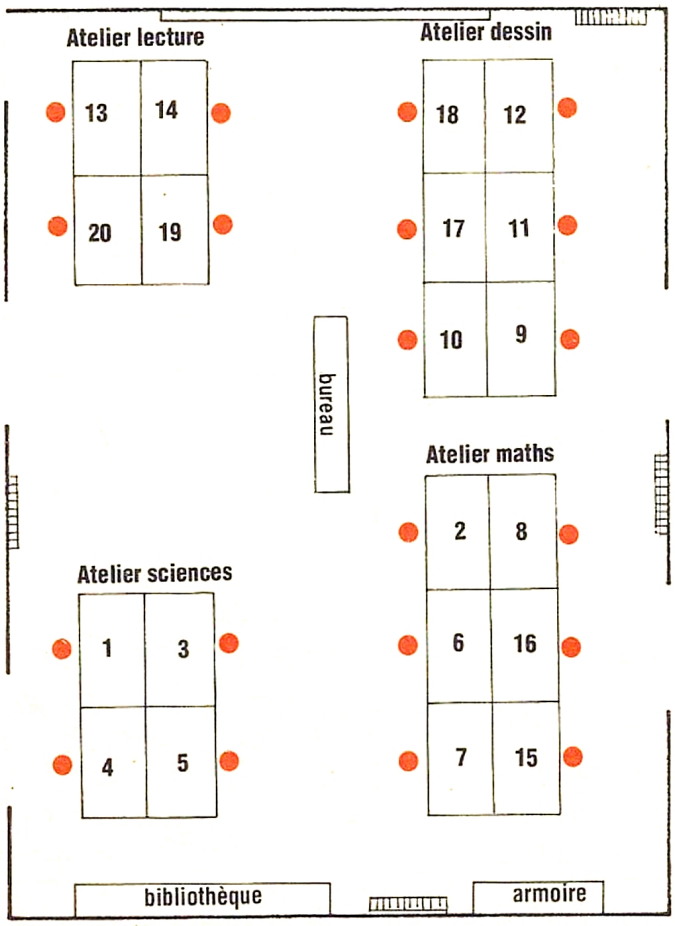

DISPOSITION C

Selon les besoins, les élèves disposent les tables de la classe. Voici trois dispositions différentes d'une même classe.

1 Sur le croquis de la disposition B, mettez dans les ronds le numéro qui correspond à chaque élève dans la disposition A.

2 Disposition A.

1 Qui est derrière Paul ? _____

2 Qui est devant Luce ? _____

3 Qui est à droite de Sophie ? _____

4 Qui est à gauche de Sophie ? _____

5 Combien d'élèves y-a-t-il ? _____

6 Samy est-il près de la fenêtre ? _____

7 Ali est-il près du tableau ? _____

8 Combien y-a-t-il de radiateurs ? _____

4 Qui est où ?

3 **VRAI ou FAUX ? Mettez une croix dans la colonne correspondante.**

		VRAI	FAUX
DISPOSITION A	1 Tous les élèves de la classe sont en face du tableau		
	2 Il y a 5 rangées de 5 élèves		
	3 Les garçons et les filles sont mélangés		
	4 Diego peut voir, en se penchant, ce que Claude fait		
DISPOSITION B	5 Kader est entre Sophie et Sébastien		
	6 Paul et Ali sont les plus proches du tableau		
	7 Marie est à la droite de Rachel		
	8 Tous les élèves tournent le dos à la bibliothèque		
	9 Yvon est plus proche de l'armoire que Sophie		
	10 Julie est juste en face de Stéphane		
	11 Rachel est juste à côté de la porte		
DISPOSITION C	12 Robert et Stéphane sont dans l'atelier lecture		
	13 Anne est dans le même groupe que Sophie		
	14 Dans l'atelier sciences, il y a plus de garçons que de filles		
	15 L'atelier lecture n'est pas assez proche de la bibliothèque		
	16 Samy et Rachel sont face à face		
	17 Pour parler à Sébastien, Diego doit se retourner		
	18 Julie est en face d'Olivier		
	19 Si Claude veut parler à Ali, il faut qu'il se déplace		
	20 Joan, qui aime lire, est dans l'atelier lecture		

5 Petit ou grand ? Je regarde



1 Le microscope et les lunettes 2 La loupe 3 Les jumelles



4 Tout le monde peut acheter une lunette astronomique

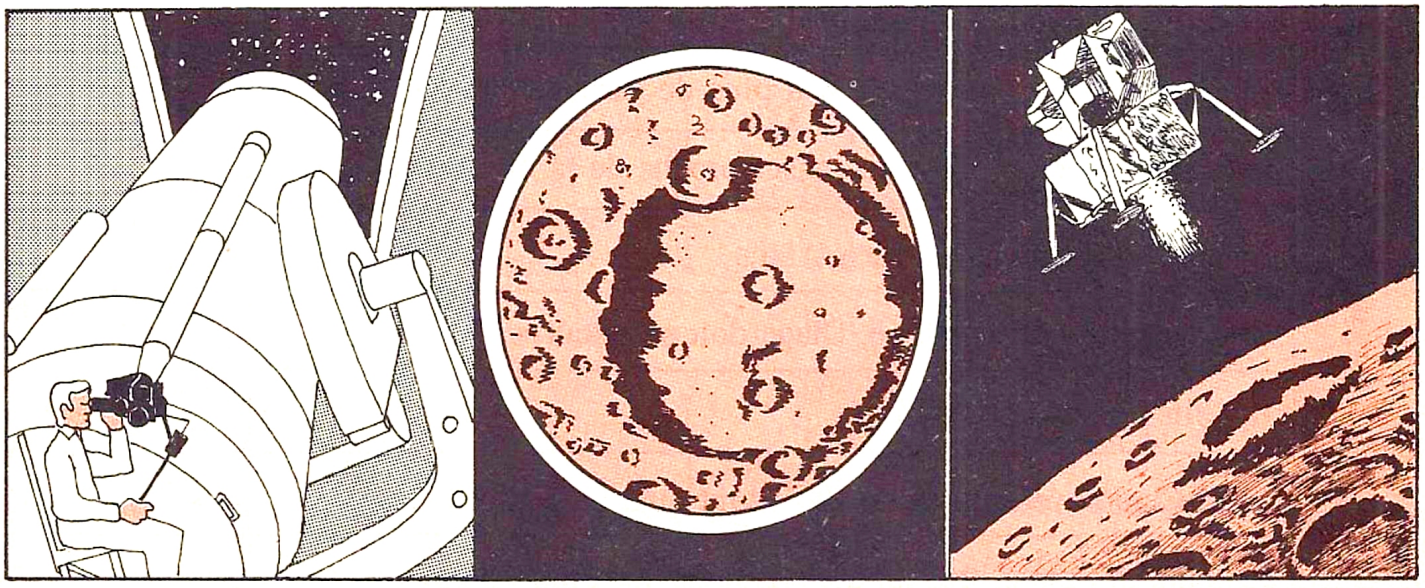

5 Le téléscope est un appareil énorme et très puissant utilisé par les savants

5 Petit ou grand ? Je regarde...

Grâce à nos yeux, nous pouvons regarder le monde qui nous entoure. Mais on ne peut voir ni les objets microscopiques comme les microbes, ni les objets très éloignés comme la lune. Alors, les savants ont construit des instruments qui permettent de tout voir.

1 Tracez des flèches. Quel instrument utiliseriez-vous pour regarder ?

1 un microbe	a une loupe
2 un insecte	b une lunette astronomique
3 un timbre poste	c des jumelles
4 la lune	d un télescope
5 un aigle qui vole	e un microscope

2 Utilisez une loupe pour lire ce texte et recopiez-le.

En regardant la lune François rêve. Il visite cette planète mystérieuse et découvre des paysages étranges. Il n'a pas peur car Dick, son gros chien, l'accompagne.

_____

_____

_____

3 Connaissez-vous des gens qui portent des lunettes ? Demandez-leur pourquoi et faites des croix dans les bonnes cases.

	Ne porte pas de lunettes	Porte des lunettes	Pour voir de près	Pour voir de loin
mon père				
ma mère				
mon grand-père				
ma grand-mère				
mon frère ou ma sœur				
mon camarade de classe				
mon voisin				
mon institutrice(teur)				

6 En voyage



1 Monsieur Dupont et sa fille partent en voyage. Valises à la main ils sortent de chez eux.



2a Sa fille prend l'autobus

3a qui l'emmène à la gare...

2b Monsieur Dupont prend un taxi...



3b qui le conduit à l'aéroport...

1 Complétez par AVANT ou APRÈS.

Ex. : a) 2a est *avant* 3a

b) 4b est _____ 3a

c) 4a est _____ 5a

d) 2a est _____ 4b

e) 3b est _____ 2a

f) 4a est _____ 2b

g) 3b est _____ 4b

h) 5b est _____ 2a

i) 5a est _____ 4b

j) 5b est _____ 6

k) 3a est _____ 5b

l) 6 est _____ 1

2 Répondez par V (vrai) ou F (faux).

a) M. Dupont prend un taxi AVANT de monter dans l'avion _____

b) M. Dupont attache sa ceinture AVANT le décollage de l'avion _____

c) M. Dupont attache sa ceinture APRÈS être monté dans l'avion _____

d) La fille de M. Dupont arrive à la gare APRÈS avoir pris l'autobus _____

e) La fille de M. Dupont lit un livre APRÈS être montée dans le wagon _____

f) La fille de M. Dupont lit un livre AVANT le départ du train _____

6 En voyage

4a où elle prend le train pour l'Italie.



5a Elle monte dans un wagon et lit en attendant le départ.



6 Bon voyage à tous les deux !



4b où il va prendre l'avion pour Londres.

5b Au même moment, monsieur Dupont attache sa ceinture.

3 Répondez par V (vrai) ou F (faux).

a) M. Dupont prend un taxi PENDANT QUE sa fille prend l'autobus_____

b) M. Dupont arrive à l'aéroport EN MÊME TEMPS QUE sa fille arrive à la gare_____

c) M. Dupont attache sa ceinture PENDANT QUE sa fille attend le départ du train_____

d) M. Dupont monte dans l'avion PENDANT QUE sa fille prend l'autobus_____

e) M. Dupont paie le taxi PENDANT QUE sa fille monte dans un wagon_____

f) M. Dupont sort de chez lui EN MÊME TEMPS QUE sa fille arrive à la gare_____

4 Répondez par OUI ou par NON.

a) M. Dupont et sa fille sortent de chez eux en même temps.

Sont-ils ensemble ?_____

b) Le train et l'avion sont partis en même temps. M. Dupont et sa fille sont-ils toujours ensemble ?_____

7 On y va ?


JIMMY, OÙ ES-TU ?
POUR ALLER AU STADE ?
OÙ VA L'AUTOBUS 38 ?
THÉATRE
GARE
AVENUE JEANNE D'ARC
JEANNE D'ARC
RUE DE PARIS
GRANVILLE
RUE CURIE
RUE DES DEUX PONTS
PONT St PIERRE
LA LOIRE
RUE BLANCHE
BLANCHE
MAIRIE
POSTE
JE SUIS AU GRAND CAFÉ.
GRAND CAFÉ
BEAUBOIS
LIBERTÉ
BOULEVARD PASTEUR
STADE
VICTOR HUGO
FESTIVAL DES JEUNES

7 On y va ?

1 Où est Jimmy ?

_____

2 Quelle est l'adresse du *Grand Café* ?

_____ au numéro _____

3 Où a lieu le Festival des Jeunes ?

_____

4 L'autobus 7 passe sur un pont au-dessus de _____

Pour aller au stade, en partant du théâtre, il faut changer à _____

et prendre la ligne n° _____

5 L'autobus 38 va de _____ à _____

Il s'arrête à _____, _____, _____

6 **A droite** ou **à gauche ?**

- Quand l'autobus 7 part du Théâtre, il trouve :

Ex. : a) la rue des Deux Ponts *à gauche*

b) la mairie _____

c) le Grand Café _____

- Quand l'autobus 38 part de la gare, il trouve :

d) la rue de Paris _____

e) la poste _____

7 Dans quelle rue est le client de l'hôtel ?

_____



Il entre à l'hôtel — Il sort de l'hôtel

8 Dans la rue


CINEMA
HOTEL DE LA POSTE
POSTE ET TEL
RUE V. HUGO
MANGEZ DES OEUFS
C'EST BON !
GARE
GARAGE R

8 Dans la rue

1 Barrez la case fausse.

a) Il y a un petit garçon [devant] [derrière] l'agent de police.

b) Le téléphone est [à droite] [à gauche] de la boîte aux lettres.

c) Le symbole ◈ est [au-dessus] [au-dessous] du symbole ⌃.

d) La pompe à essence est [à droite] [à gauche] quand on entre dans le garage.

e) On voit quelqu'un [devant] [derrière] la porte de l'hôtel.

f) Le monsieur qui entre dans le garage tient sa valise dans la main [droite] [gauche].

g) Il y a une personne à la fenêtre [au-dessus] [au-dessous] du garage.

h) Il y a un chat sur le toit [au-dessus] [au-dessous] de la personne à la fenêtre.

i) Il y a une pompe à essence [devant] [derrière] le garage.

j) Le cycliste qui est arrêté est [à droite] [à gauche] du cycliste qui roule.

k) La pancarte qui indique la gare est [à droite] [à gauche] du cycliste qui roule.

l) Pour aller à l'hôtel, le monsieur qui sort de la poste doit aller [à droite] [à gauche].

2 L'endroit où vous vivez... Mettez une croix dans la case qui convient. Dans la troisième colonne, essayez d'indiquer le nombre.

☐ aucun hôtel	☐ un hôtel	☐ plusieurs hôtels nombre : _____
☐ aucun garage	☐ un garage	☐ plusieurs garages nombre : _____
☐ aucun bureau de poste	☐ un bureau de poste	☐ plusieurs bureaux de poste nombre : _____
☐ aucun cinéma	☐ un cinéma	☐ plusieurs cinémas nombre : _____
☐ aucune gare	☐ une gare	☐ plusieurs gares nombre : _____
☐ aucune station-service	☐ une station-service	☐ plusieurs stations-service nombre : _____

9 Bien vu ! (1)

1 Vous avez pris cette photo.

1 Barrez les affirmations fausses.

Vous étiez a) au même niveau que les autoroutes
b) plus bas que les autoroutes
c) plus haut que les autoroutes

vous étiez a) très près du point **a**
b) très loin du point **a**



2 Quand c'est juste, mettez une croix.

a) L'immeuble **a** a plus d'étages que l'immeuble **b** ☐

b) Le véhicule **c** va se rapprocher de vous ☐

c) Le véhicule **d** va se rapprocher de vous ☐

d) Le véhicule **e** est plus haut que les véhicules **f** ☐

e) Le véhicule **h** est plus près de vous que le véhicule **g** ☐

f) Les piétons traversent derrière les autobus **i** ☐

g) Les véhicules roulent à gauche ☐

9 Bien vu ! (1)



2 **Regardez bien la photo ci-dessus et répondez par VRAI ou FAUX. Mettez V ou F.**

1	a) Le point **b** est plus haut que le point **a**	
	b) Le point **b** est plus bas que le point **a**	
2	a) Le point **c** est plus proche du photographe que le point **d**	
	b) Le point **c** est plus éloigné du photographe que le point **d**	
3	a) Une route passe devant la maison **e**	
	b) Une route passe devant la maison **f**	
4	a) Pour aller de **e** à **d** il faut descendre une côte	
	b) Pour aller de **e** à **d** il faut monter une côte	
5	a) La maison **a** se trouve au bas d'une colline	
	b) La maison **a** se trouve en haut d'une colline	
6	a) La maison **f** est plus éloignée de la maison **a** que la maison **c**	
	b) La maison **f** est moins éloignée de la maison **a** que la maison **c**	
7	a) Le point le plus rapproché du photographe est le point **f**	
	b) Le point le plus rapproché du photographe est le point **g**	

10 Bien vu ! (2)





1	2	3
4	5	
6		

10 Bien vu ! (2)

1 Mettez une croix dans la colonne correspondante.

	Image n°		VRAI	FAUX	?
a)	1	Le photographe est au-dessus des personnages			
b)	1	La plupart des personnages sont couchés			
c)	2	C'est le n° 8 qui va gagner			
d)	2	Le coureur n° 8 peut toucher le coureur n° 11 avec la main droite			
e)	2	La course est disputée par plus de deux coureurs			
f)	3	Le personnage à chapeau haut de forme est plus grand que le policier			
g)	3	La dame est plus petite que le policier			
h)	3	Le policier a le pied gauche en avant			
i)	4	Le photographe est situé derrière la tribune			
j)	4	Il y a plus de deux rangs sur la tribune			
k)	5	Le photographe est situé plus bas que l'archer			
l)	6	L'homme qui rame dans la barque devrait être plus grand			
m)	6	Les bateaux sont beaucoup trop petits par rapport aux hommes			
n)	7	Les deux danseuses devraient être plus grandes			

2 Redessinez quelques personnages en tenant compte de leurs places.



7

11 Auprès de mon arbre...

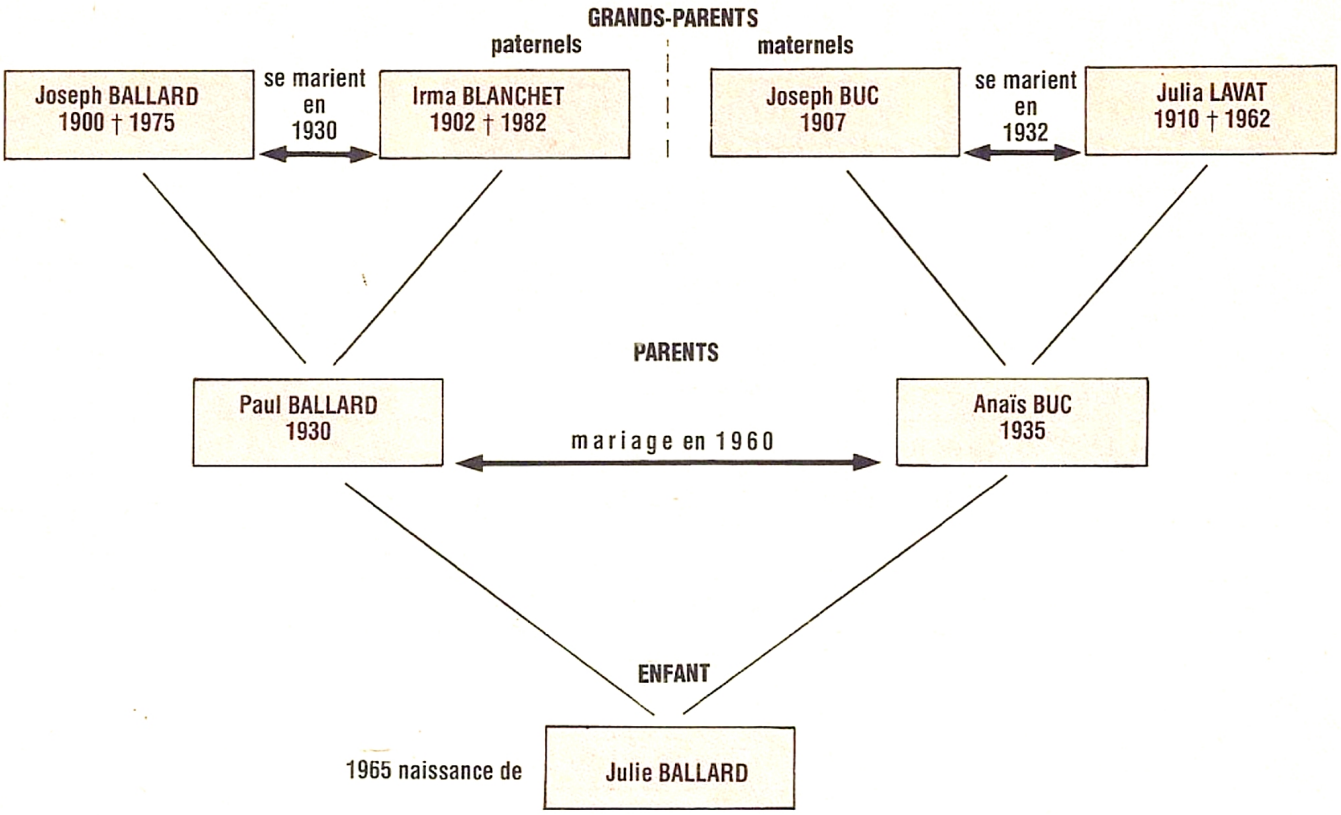

1 VRAI ou FAUX ? Mettez une croix dans la case correspondante.

	VRAI	FAUX
1 Julie Ballard est née en 1965		
2 La mère de Julie s'appelle Anaïs Buc		
3 Joseph Buc est le grand-père paternel de Julie		
4 Joseph Buc est le grand-père maternel de Julie		
5 Le père de Julie est toujours vivant		
6 Le grand-père paternel de Julie est décédé en 1975		
7 La grand-mère maternelle de Julie est toujours vivante		
8 Joseph Buc et Julia Lavat ont eu un garçon		
9 Joseph Buc et Julia Lavat ont eu une fille		
10 Le père de Paul Ballard se prénomme Joseph		
11 Les grands-parents maternels de Julie se sont mariés après ses grands-parents paternels		
12 Les grands-parents maternels de Julie se sont mariés avant ses grands-parents paternels		
13 Les grands-mères de Julie se prénomment Irma et Julia		
14 Les grands-pères de Julie se prénomment Joseph et Paul		
15 Les parents de Julie se sont mariés en 1960		

11 Auprès de mon arbre...

2 **Remplissez votre arbre généalogique.**

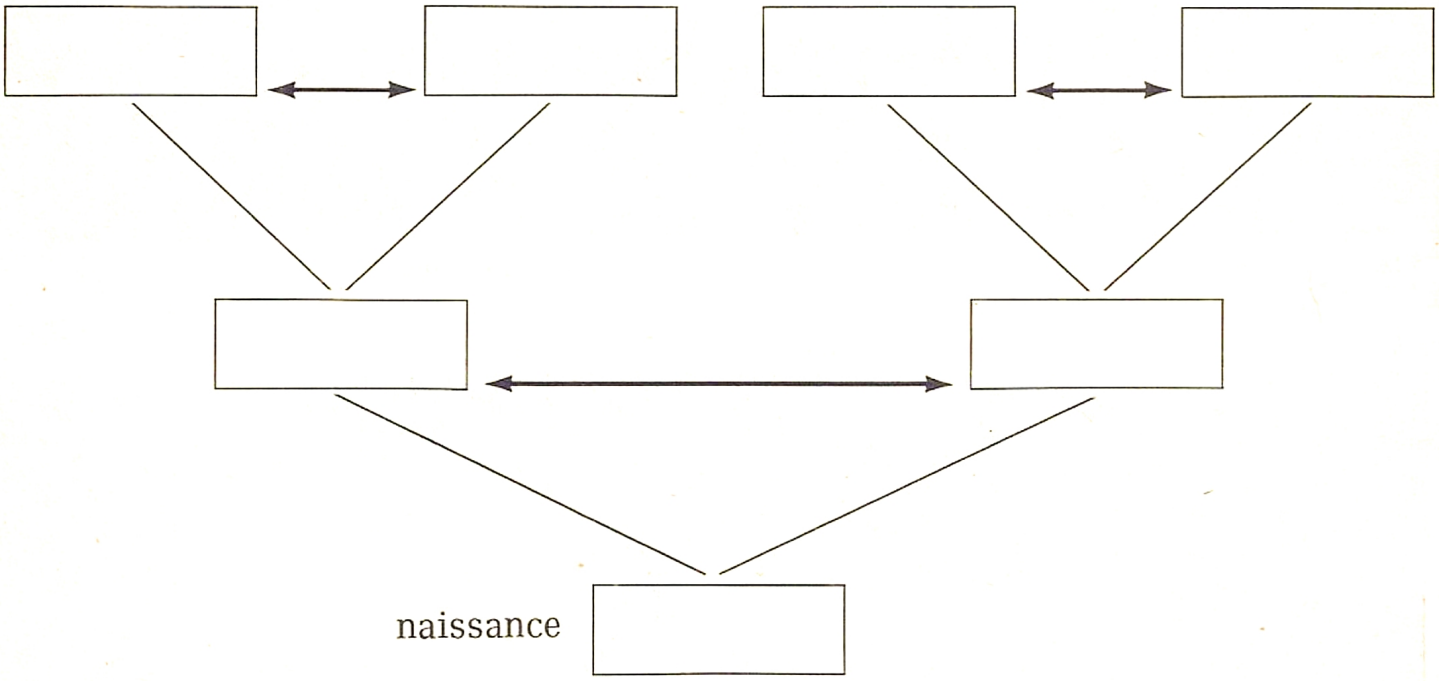

Entourez en ROUGE les enfants, en BLEU les parents, en NOIR les grands-parents. (N'entourez que les visages.)

12 Les animaux se protègent



1 Les plaques osseuses du tatou



2 La carapace de la tortue



3 Les plumes du canard



4 Le pelage de l'ours



5 La cuirasse du doryphore

6 Les piquants du hérisson

12 Les animaux se protègent

1 Reliez par une flèche chaque animal au « vêtement » qui le protège.



1 •
2 •
3 •
4 •

• a) cuirasse •
• b) piquants •
• c) pelage •
• d) plumes •
• e) écailles •
• f) coquille •
• g) peau lisse •

• 5
• 6
• 7
• 8

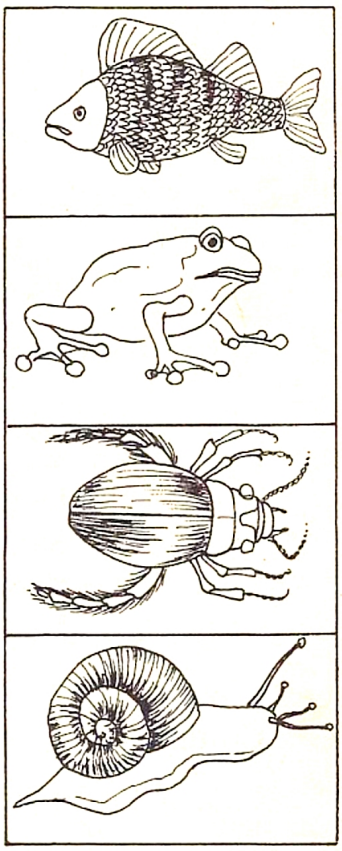

2 Complétez.

1 Avez-vous déjà vu a) une tortue ? _____ b) un hérisson ? _____

c) Que fait la tortue quand elle est effrayée ? _____

_____

d) Que fait le hérisson ? _____

2 Quel animal photographié a le pelage le plus long ? _____

3 Quel animal est recouvert de plaques osseuses ?

_____

4 Citez 2 animaux protégés par une cuirasse.

_____

3 Recherche.

Le bernard-l'ermite a un corps mou très apprécié par les crabes. Comment se protège-t-il ?

_____

7 La toison du bœuf musqué

13 De la semaine au mois

1 Remettez les jours de la semaine dans l'ordre.

1	Dimanche	1	Dimanche
2	Mardi	2	_____
3	Jeudi	3	_____
4	Samedi	4	_____
5	Lundi	5	_____
6	Mercredi	6	_____
7	Vendredi	7	_____

2 Reliez les mots qui commencent par les mêmes lettres.

Lundi	1	a	Mercure
Mercredi	2	b	Lune
Jeudi	3	c	Vénus
Samedi	4	d	Saturne
Vendredi	5	e	Mars
Mardi	6	f	Jupiter

3 Complétez.

1 La veille du jeudi, c'est _____

2 Le lendemain du jeudi, c'est _____

3 L'avant-veille du jeudi, c'est _____

4 Le surlendemain du jeudi, c'est _____

5 Il n'y a pas classe le _____

6 Je partirai la veille du dimanche, c'est-à-dire _____

7 Je reviendrai le lendemain du dimanche, c'est-à-dire _____

8 Aujourd'hui c'est lundi. Dans cinq jours ce sera _____

4 Barrez ce qui est faux.

1 Un journal *quotidien* paraît :
a) tous les mois b) toutes les semaines c) tous les jours

2 Un magazine *hebdomadaire* paraît :
a) tous les mois b) toutes les semaines c) tous les jours

3 Un magazine *mensuel* paraît :
a) tous les mois b) toutes les semaines c) tous les jours

Donnez le titre d'un quotidien. _____

Donnez le titre d'un hebdomadaire. _____

13 De la semaine au mois

5 Réfléchissons.

Ce journal est paru le mercredi 12 janvier c'est un ***HEBDOMADAIRE.***

12 JANVIER 1983 N° 883
M 2675 - 883 - **3,80 F**
BELGIQUE : 28 FB SUISSE : 1.50 FS
PROGRAMMES du 15 au 21 JANVIER

1 A quelle date est paru le numéro précédent ?

_____

2 A quelle date est paru le numéro suivant ?

_____

6 Un mois.

SEPTEMBRE
○ 5 h 09 à 18 h 33

1re semaine	1	J	S. Gilles
	2	V	Se Ingrid
	3	S	S. Grégoire
	4	D	Se Rosalie
	5	L	Se Raïssa
	6	M	S. Bertrand
	7	M	Se Reine ●
	8	J	*Nativité N.D.*
	9	V	S. Alain
	10	S	Se Inès
	11	D	S. Adelphe
	12	L	S. Apollinaire
	13	M	S. Aimé
	14	M	*La Se Croix* ☽
	15	J	S. Roland
	16	V	Se Edith
	17	S	S. Renaud
	18	D	Se Nadège
	19	L	Se Emilie
	20	M	S. Davy
	21	M	S. Matthieu
	22	J	S. Maurice ○
	23	V	AUTOMNE
	24	S	Se Thècle
	25	D	S. Hermann
	26	L	SS. Côme, Dam.
	27	M	S. Vinc. de Paul
	28	M	S. Venceslas
	29	J	S. Michel ☾
	30	V	S. Jérôme

1 Combien de jours compte-t-il ? _____

2 Combien de jours y a-t-il en octobre ? _____

3 Et en février ? _____

4 Quel jour commence la 1re semaine ? _____

5 Quel jour finit la 1re semaine ? _____

6 Quel jour fête-t-on la St Maurice ? _____

7 Quel jour fête-t-on la Ste Inès ? _____

8 Quel est la date du début de l'automne ? _____

9 Combien y a-t-il de dimanches ? _____

10 Combien y a-t-il de mercredis ? _____

11 Quelle fête célèbre-t-on le dernier jour du mois ? _____

7 Écrivez les mois dans l'ordre.

1 *janvier* 2 _____ 3 _____ 4 _____

5 _____ 6 _____ 7 _____ 8 _____

9 _____ 10 _____ 11 _____ 12 _____

8 Quels sont

les 7 mois de 31 jours _____

_____

les 4 mois de 30 jours _____

_____

le mois de 28 ou 29 jours _____

14 A la maison

1

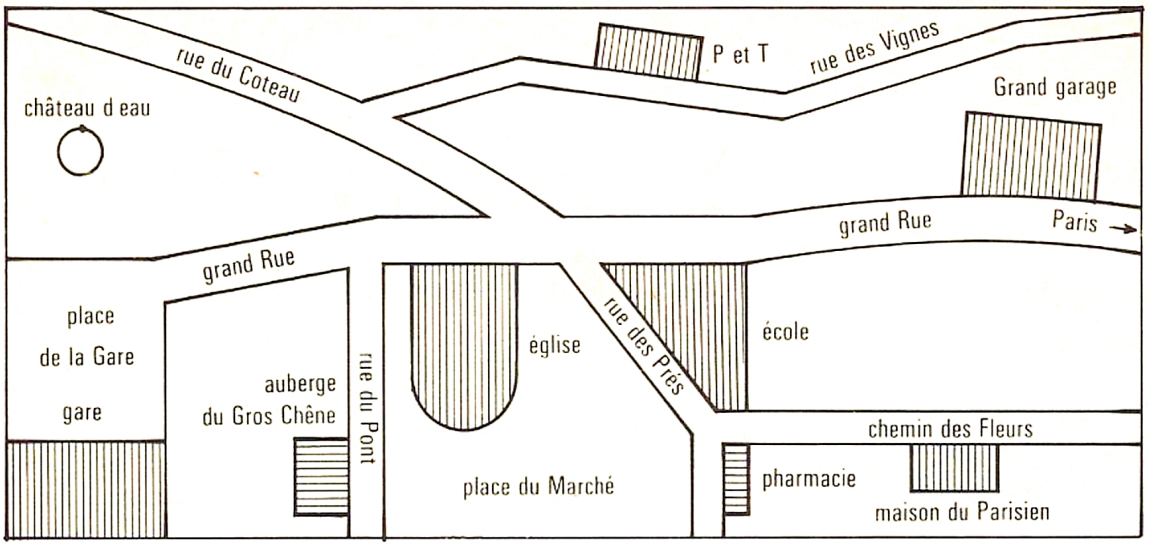

2

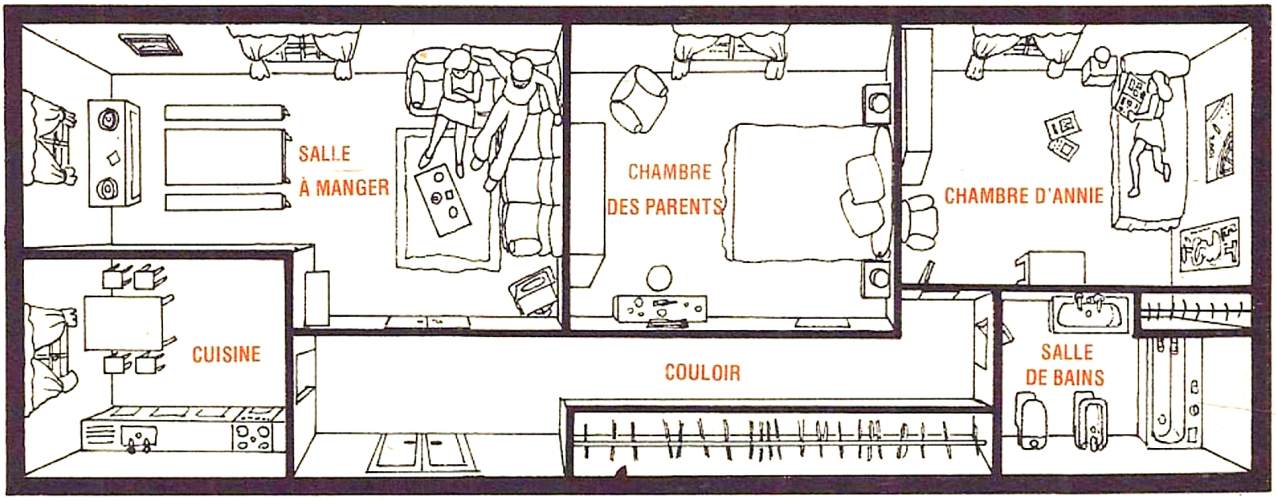

3



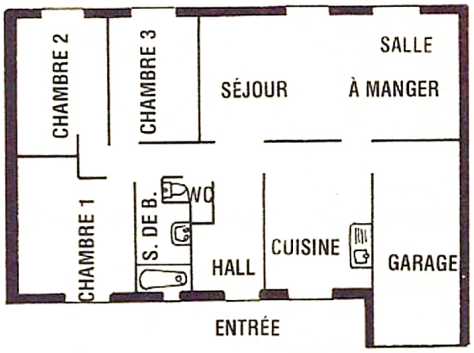

4



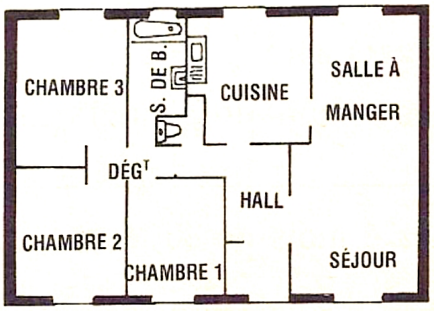

14 A la maison

Mettez une croix dans la case seulement si c'est VRAI.

1 Regardez le *document 1.*

a) Le grand garage est dans la Grand Rue. ☐

b) Les P et T sont rue des Vignes. ☐

c) L'auberge du Gros Chêne est rue du Pont. ☐

d) L'école donne sur la rue des Prés et sur la Grand Rue. ☐

e) L'église donne sur la place de la gare. ☐

2 Regardez le *document 2.*

a) La cuisine est à un bout du couloir. ☐

b) La salle de bain est à l'autre bout du couloir. ☐

c) La chambre d'Annie est à côté de la salle à manger. ☐

d) La chambre des parents est à côté de la salle à manger. ☐

e) La salle à manger communique directement avec la cuisine. ☐

3 Regardez le *document 3.*

a) Il y a trois chambres. ☐

b) La chambre 1 est du même côté que les chambres 2 et 3. ☐

c) Le séjour et la salle à manger sont séparés par un mur. ☐

d) La cuisine a une porte qui donne sur le jardin. ☐

e) La maison comporte un garage. ☐

4 Regardez le *document 4.*

a) La salle à manger communique avec la cuisine. ☐

b) La salle de bain est à côté de la chambre 3. ☐

c) La chambre 1 est en face des W.C. ☐

d) Il y a une porte-fenêtre dans le séjour. ☐

e) Le garage est sur le dessin mais pas sur le plan. ☐

15 A travers le calendrier

1984 JANVIER			FÉVRIER			MARS		
○ 7 h 43 à 16 h 04			○ 7 h 21 à 16 h 47			○ 6 h 32 à 17 h 34		
1	D	JOUR de l'AN	1	M	Se Ella ●	1	J	S. Aubin
2	L	S. Basile	2	J	*Présentation*	2	V	S. Charles le B ●
3	M	Se Geneviève ●	3	V	S. Blaise	3	S	S. Guénolé
4	M	S. Odilon	4	S	Se Véronique	4	D	S. Casimir
5	J	S. Edouard	5	D	Se Agathe	5	L	S. Olive
6	V	S. Mélaine	6	L	S. Gaston	6	M	Mardi-Gras
7	S	S. Raymond	7	M	Se Eugénie	7	M	Cendres
8	D	Epiphanie	8	M	Se Jacqueline	8	J	S. Jean de D.
9	L	Se Alix	9	J	Se Apolline	9	V	Se Françoise
10	M	S. Guillaume	10	V	S. Arnaud ☽	10	S	S. Vivien ☽
11	M	S. Paulin ☽	11	S	*N. D. Lourdes*	11	D	Carême
12	J	Se Tatiana	12	D	S. Félix	12	L	Se Justine
13	V	Se Yvette	13	L	Se Béatrice	13	M	S. Rodrigue
14	S	Se Nina	14	M	S. Valentin	14	M	Se Mathilde
15	D	S. Remi	15	M	S. Claude	15	J	Se Louise de M.
16	L	S. Marcel	16	J	Se Julienne	16	V	Se Bénédicte
17	M	Se Roseline	17	V	S. Alexis ○	17	S	S. Patrice ○
18	M	Se Prisca ○	18	S	Se Bernadette	18	D	S. Cyrille
19	J	S. Marius	19	D	S. Gabin	19	L	S. Joseph
20	V	S. Sébastien	20	L	Se Aimée	20	M	PRINTEMPS
21	S	Se Agnès	21	M	S. P. Damien	21	M	Se Clémence
22	D	S. Vincent	22	M	Se Isabelle	22	J	Se Léa
23	L	S. Barnard	23	J	S. Lazare ☾	23	V	S. Victorien
24	M	S. Fr. de Sales	24	V	S. Modeste	24	S	Se Cath. de Su. ☾
25	M	*Conv. S. Paul* ☾	25	S	S. Roméo	25	D	Annonciation
26	J	Se Paule	26	D	S. Nestor	26	L	Se Larissa
27	V	Se Angèle	27	L	Se Honorine	27	M	S. Habib
28	S	S. Th. d'Aquin	28	M	S. Romain	28	M	S. Gontran
29	D	S. Gildas	29	M	S. Auguste	29	J	Se Gwladys
30	L	Se Martine	Epacte 27 / Lettre dominic AG			30	V	S. Amédée
31	M	Se Marcelle	Cycle solaire 5 / Nbre d'or 9			31	S	S. Benjamin
			Indiction romaine 7					

AVRIL			MAI			JUIN 1984		
○ 5 h 27 à 18 h 22			○ 4 h 29 à 19 h 06			○ 3 h 51 à 19 h 46		
1	D	S. Hugues ●	1	M	F. du TRAVAIL ●	1	V	S. Justin
2	L	Se Sandrine	2	M	S. Boris	2	S	Se Blandine
3	M	S. Richard	3	J	SS. Phil., Jacq.	3	D	S. Kévin
4	M	S. Isidore	4	V	S. Sylvain	4	L	Se Clotilde
5	J	Se Irène	5	S	Se Judith	5	M	S. Igor
6	V	S. Marcellin	6	D	Se Prudence	6	M	S. Norbert ☽
7	S	S. J.B. de la S.	7	L	Se Gisèle	7	J	S. Gilbert
8	D	Se Julie	8	M	ARMIST. 1945 ☽	8	V	S. Médard
9	L	S. Gautier ☽	9	M	S. Pacôme	9	S	Se Diane
10	M	S. Fulbert	10	J	Se Solange	10	D	PENTECÔTE
11	M	S. Stanislas	11	V	Se Estelle	11	L	S. Barnabé
12	J	S. Jules	12	S	S. Achille	12	M	S. Guy
13	V	Se Ida	13	D	Fête J.-d'Arc	13	M	S. Ant. de P. ○
14	S	S. Maxime	14	L	S. Matthias	14	J	S. Elisée
15	D	Rameaux ○	15	M	Se Denise ○	15	V	Se Germaine
16	L	S. Benoît-J.	16	M	S. Honoré	16	S	S. J.F. Régis
17	M	S. Anicet	17	J	S. Pascal	17	D	S. Hervé
18	M	S. Parfait	18	V	S. Eric	18	L	S. Léonce
19	J	Se Emma	19	S	S. Yves	19	M	S. Romuald
20	V	Se Odette	20	D	S. Bernardin	20	M	S. Silvère
21	S	S. Anselme	21	L	S. Constantin	21	J	ÉTÉ ☾
22	D	PAQUES	22	M	S. Emile ☾	22	V	S. Alban
23	L	S. Georges ☾	23	M	S. Didier	23	S	Se Audrey
24	M	S. Fidèle	24	J	S. Donatien	24	D	Fête-Dieu
25	M	S. Marc	25	V	Se Sophie	25	L	S. Prosper
26	J	Se Alida	26	S	S. Bérenger	26	M	S. Anthelme
27	V	Se Zita	27	D	Fête des Mères	27	M	S. Fernand
28	S	Se Valérie	28	L	S. Germain	28	J	S. Irénée
29	D	Jour du Souv.	29	M	S. Aymard	29	V	SS. Pierre, Paul ●
30	L	S. Robert	30	M	S. Ferdinand ●	30	S	S. Martial
			31	J	ASCENSION			
						Fonderie CASLON - Paris		

1984 JUILLET			AOUT			SEPTEMBRE		
○ 3 h 50 à 19 h 57			○ 4 h 23 à 19 h 29			○ 5 h 07 à 18 h 33		
1	D	S. Thierry	1	M	S. Alphonse	1	S	S. Gilles
2	L	S. Martinien	2	J	S. Julien-Ey.	2	D	Se Ingrid ☽
3	M	S. Thomas	3	V	Se Lydie	3	L	S. Grégoire
4	M	S. Florent	4	S	S. J.M.Vian. ☽	4	M	Se Rosalie
5	J	S. Antoine ☽	5	D	S. Abel	5	M	Se Raissa
6	V	Se Mariette	6	L	*Transfiguration*	6	J	S. Bertrand
7	S	S. Raoul	7	M	S. Gaétan	7	V	Se Reine
8	D	S. Thibaut	8	M	S. Dominique	8	S	*Nativité N.D.*
9	L	Se Amandine	9	J	S. Amour	9	D	S. Alain
10	M	S. Ulrich	10	V	S. Laurent	10	L	Se Inès ○
11	M	S. Benoît	11	S	Se Claire ○	11	M	S. Adelphe
12	J	S. Olivier	12	D	Se Clarisse	12	M	S. Apollinaire
13	V	SS. Henri, Joël ○	13	L	S. Hippolyte	13	J	S. Aimé
14	S	FÊTE NATIONALE	14	M	S. Evrard	14	V	*La Se Croix*
15	D	S. Donald	15	M	ASSOMPTION	15	S	S. Roland
16	L	*N.D. Mt-Carmel*	16	J	S. Armel	16	D	Se Edith
17	M	Se Charlotte	17	V	S. Hyacinthe	17	L	S. Renaud
18	M	S. Frédéric	18	S	Se Hélène	18	M	Se Nadège ☾
19	J	S. Arsène	19	D	S. Jean Eudes ☾	19	M	Se Emilie
20	V	Se Marina	20	L	S. Bernard	20	J	S. Davy
21	S	S. Victor ☾	21	M	S. Christophe	21	V	S. Matthieu
22	D	Se Marie-Mad.	22	M	S. Fabrice	22	S	AUTOMNE
23	L	Se Brigitte	23	J	Se Rose de L.	23	D	S. Constant
24	M	Se Christine	24	V	S. Barthélemy	24	L	Se Thècle
25	M	S. Jacques	25	S	S. Louis	25	M	S. Hermann ●
26	J	SS. Anne, Joa.	26	D	Se Natacha ●	26	M	SS. Côme, Dam.
27	V	Se Nathalie	27	L	Se Monique	27	J	S. Vinc. de Paul
28	S	S. Samson ●	28	M	S. Augustin	28	V	S. Venceslas
29	D	Se Marthe	29	M	Se Sabine	29	S	S. Michel
30	L	Se Juliette	30	J	S. Fiacre	30	D	S. Jérôme
31	M	S. Ignace de L.	31	V	S. Aristide			

OCTOBRE			NOVEMBRE			DÉCEMBRE 1984		
○ 5 h 49 à 17 h 29			○ 6 h 37 à 16 h 30			○ 7 h 22 à 15 h 56		
1	L	Se Th. de l'E.J. ☽	1	J	TOUSSAINT	1	S	Se Florence
2	M	S. Léger	2	V	Défunts	2	D	Avent
3	M	S. Gérard	3	S	S. Hubert	3	L	S. Xavier
4	J	S. Fr. d'Assise	4	D	S. Charles	4	M	Se Barbara
5	V	Se Fleur	5	L	Se Sylvie	5	M	S. Gérald
6	S	S. Bruno	6	M	Se Bertille	6	J	S. Nicolas
7	D	S. Serge	7	M	Se Carine	7	V	S. Ambroise
8	L	Se Pélagie	8	J	S. Geoffroy ○	8	S	*Im. Concept.* ○
9	M	S. Denis ○	9	V	S. Théodore	9	D	S. P. Fourier
10	M	S. Ghislain	10	S	S. Léon	10	L	S. Romaric
11	J	S. Firmin	11	D	ARMISTICE 1918	11	M	S. Daniel
12	V	S. Wilfried	12	L	S. Christian	12	M	Se Jeanne F.C.
13	S	S. Géraud	13	M	S. Brice	13	J	Se Lucie
14	D	S. Juste	14	M	S. Sidoine	14	V	Se Odile
15	L	Se Th. d'Avila	15	J	S. Albert	15	S	Se Ninon ☾
16	M	Se Edwige	16	V	Se Marguerite ☾	16	D	Se Alice
17	M	S. Baudouin ☾	17	S	Se Elisabeth	17	L	S. Gaël
18	J	S. Luc	18	D	Se Aude	18	M	S. Gatien
19	V	S. René	19	L	S. Tanguy	19	M	S. Urbain
20	S	Se Adeline	20	M	S. Edmond	20	J	S. Abraham
21	D	Se Céline	21	M	*Prés. de Marie*	21	V	HIVER
22	L	Se Elodie	22	J	Se Cécile ●	22	S	Se Fr-Xavière ●
23	M	S. Jean de C.	23	V	S. Clément	23	D	S. Armand
24	M	S. Florentin ●	24	S	Se Flora	24	L	Se Adèle
25	J	S. Crépin	25	D	Se Catherine L.	25	M	NOËL
26	V	S. Dimitri	26	L	Se Delphine	26	M	S. Etienne
27	S	Se Emeline	27	M	S. Séverin	27	J	S. Jean
28	D	SS. Sim., Jude	28	M	S. Jacq. de la M.	28	V	*SS. Innocents*
29	L	S. Narcisse	29	J	S. Saturnin	29	S	S. David
30	M	S. Bienvenue	30	V	S. André ☽	30	D	S. Roger ☽
31	M	S. Quentin ☽				31	L	S. Sylvestre
					Fonderie CASLON - Paris			

1 Écrivez le jour et la date de leur fête.

Sophie _____

Rémi _____

Juliette _____

Inès _____

Richard _____

Lucie _____

Nestor _____

Maman _____

Alain _____

Votre fête _____

15 A travers le calendrier

2 VRAI (V) ou FAUX (F). Mettez une croix dans la case correspondante.

	V	F
1 Dans une année il y a 13 mois		
2 Dans une année il y a 12 mois		
3 Juillet se trouve entre juin et août		
4 Août se trouve entre juin et septembre		
5 Il y a 31 jours au mois de mai		
6 Une semaine compte 6 jours		
7 Chaque mois compte au moins 4 semaines		
8 Janvier et février sont des mois d'hiver		
9 Juillet et août sont des mois d'automne		
10 Mardi est le lendemain de dimanche		
11 Dimanche est la veille de lundi		
12 En 1984 la Fête des Mères tombe un dimanche		

3

1 Quel est le 5e mois de l'année ?

_____

2 Quel est le 12e mois de l'année ?

_____

4 Recherche.

1 En 1983, quel jour a-t-on célébré cette joyeuse fête ?

_____

2 Et en 1984 ?

_____

3 Et en 1985 ?

_____

1983 JANVIER ☉ 7 h 45 à 16 h 02			FÉVRIER ☉ 7 h 23 à 16 h 46			MARS ☉ 6 h 35 à 17 h 32		
1	S	JOUR de l'AN	1	M	Se Ella	1	M	S. Aubin
2	D	Epiphanie	2	M	*Présentation*	2	M	S. Charles le B.
3	L	Se Geneviève	3	J	S. Blaise	3	J	S. Guénolé
4	M	S. Odilon	4	V	Se Véronique ☾	4	V	S. Casimir
5	M	S. Edouard	5	S	Se Agathe	5	S	S. Olive
6	J	S. Mélaine ☾	6	D	S. Gaston	6	D	Se Colette ☾
7	V	S. Raymond	7	L	Se Eugénie	7	L	Se Félicité
8	S	S. Lucien	8	M	Se Jacqueline	8	M	S. Jean de D.
9	D	Se Alix	9	M	Se Apolline	9	M	Se Françoise
10	L	S. Guillaume	10	J	S. Arnaud	10	J	S. Vivien
11	M	S. Paulin	11	V	*N. D. Lourdes*	11	V	Se Rosine
12	M	Se Tatiana	12	S	S. Félix	12	S	Se Justine
13	J	Se Yvette	13	D	Se Béatrice ●	13	D	S. Rodrigue
14	V	Se Nina ●	14	L	S. Valentin	14	L	Se Mathilde ●
15	S	S. Remi	15	M	Mardi-Gras	15	M	Se Louise de M.
16	D	S. Marcel	16	M	Cendres	16	M	Se Bénédicte
17	L	Se Roseline	17	J	S. Alexis	17	J	S. Patrice
18	M	Se Prisca	18	V	Se Bernadette	18	V	S. Cyrille
19	M	S. Marius	19	S	S. Gabin	19	S	S. Joseph
20	J	S. Sébastien	20	D	Carême ☽	20	D	S. Herbert
21	V	Se Agnès	21	L	S. P. Damien	21	L	PRINTEMPS
22	S	S. Vincent ☽	22	M	Se Isabelle	22	M	Se Léa ☽
23	D	S. Barnard	23	M	S. Lazare	23	M	S. Victorien
24	L	S. Fr. de Sales	24	J	S. Modeste	24	J	Se Cath. de Su.
25	M	*Conv. S. Paul*	25	V	S. Roméo	25	V	Annonciation
26	M	Se Paule	26	S	S. Nestor	26	S	Se Larissa
27	J	Se Angèle	27	D	Se Honorine ○	27	D	Rameaux
28	V	S. Th. d'Aquin ○	28	L	S. Romain	28	L	S. Gontran ○
29	S	S. Gildas				29	M	Se Gwladys
30	D	Se Martine				30	M	S. Amédée
31	L	Se Marcelle				31	J	S. Benjamin

Epacte 16/Lettre dominic. B
Cycle solaire 4/Nbre d'or 8
Indiction romaine 6

16 Pluie - orage - neige

Un **éclair** est une grande étincelle causée par l'électricité qui est dans le ciel. Quand un éclair touche la terre, on dit que la **foudre** tombe. L'éclair est accompagné par un grand bruit : le **tonnerre.**

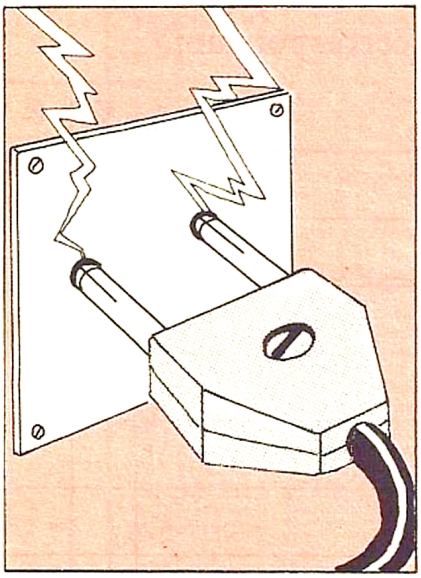



1 Complétez.

1 Que voit-on quand on branche une prise de courant ? _____

2 Pendant un orage, on voit _____ et on entend _____

3 Pourquoi ne faut-il pas mettre ses doigts dans une prise de courant ?

_____

4 Que place-t-on sur les toits des maisons pour se protéger de la foudre ?

_____

2 Coloriez en JAUNE la bonne réponse.

Quand il a plu, où va l'eau de pluie ?

a)	dans les égouts	puis dans les caniveaux	puis dans les rivières
b)	dans les rivières	puis dans les égouts	puis dans les caniveaux
c)	dans les caniveaux	puis dans les égouts	puis dans les rivières



16 Pluie-orage-neige

1 **Recherche. Coloriez l'arc-en-ciel.**

2 **Coloriez les bonnes réponses en JAUNE.**

1 Quand peut-on voir tomber la neige ?

a en janvier | **b** en juin | **c** en août | **d** en décembre | **e** en février | **f** en juillet

2 Peut-on voir des cristaux de neige à l'œil nu ? **a** oui | **b** non

3 Quels sports peut-on pratiquer quand il neige ?

a du vélo | **b** de la natation | **c** du patinage | **d** du ski | **e** de l'athlétisme | **f** de la luge

4 On voit un arc-en-ciel :

a s'il pleut et s'il ne fait pas soleil | **b** s'il pleut et s'il fait soleil

3 **Complétez.**

Où peut-on voir de la neige en plein été ? _____





17 Les animaux se déplacent



1 L'atterrissage de l'oiseau



2 La course du guépard



3 La nage ondulée de l'anguille



4 Le saut du saumon

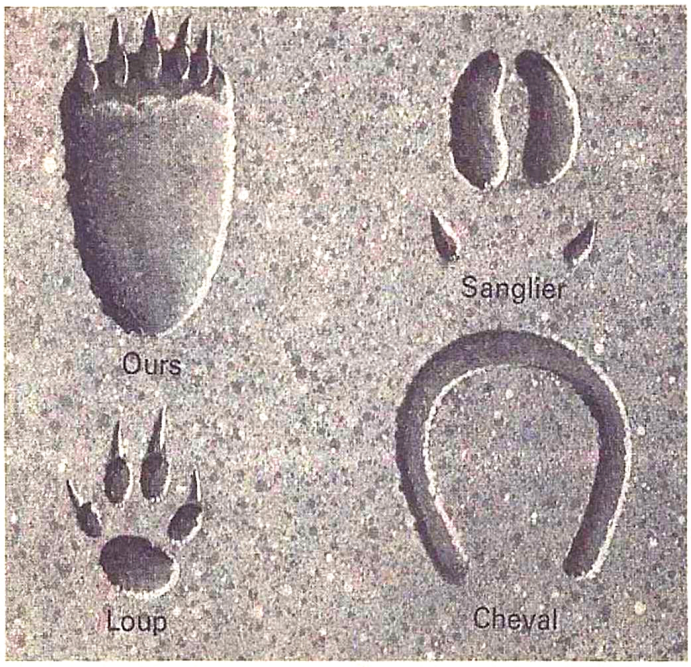

Empreintes sur le sable



5 Le saut du lièvre

17 Les animaux se déplacent

LA VITESSE DES ANIMAUX (EN KM/H)

bourdon	: 18	faucon	: 270
guépard	: 115	aigle	: 130
autruche	: 65	cheval	: 75
saumon	: 45	lièvre	: 72
espadon	: 100	chameau	: 20
kangourou	: 70	porc	: 17
gazelle	: 95	girafe	: 50



6 La marche du lion

1 Répondez par VRAI ou FAUX.

1 Le faucon vole plus vite que l'aigle _____
2 L'ours a quatre doigts _____
3 Le chameau court plus vite que le cheval _____
4 Le saumon peut sauter hors de l'eau _____
5 On peut suivre une autruche en courant _____
6 Pour atterrir, l'oiseau écarte ses plumes _____
7 Sur une autoroute, une voiture peut suivre une girafe _____
8 Le loup a 5 doigts _____
9 Les pattes arrière du guépard sont plus longues que les pattes avant _____
10 Un chasseur peut attraper un lièvre en le poursuivant _____
11 Un guépard ne court pas aussi vite qu'une gazelle _____

2 Barrez les réponses fausses.

1 Le lion marche. Il avance la patte avant **a** droite **b** gauche
et la patte arrière **c** droite **d** gauche.

2 Observez un chien. Marche-t-il comme le lion ? **a** oui **b** non

3 Quand vous reconnaissez ces empreintes, écrivez le nom de l'animal.

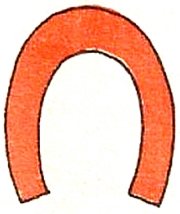

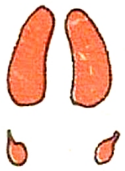

a) _____ b) _____ c) _____ d) _____ e) _____

18 Au quatrième top

1 Mettez les montres à l'heure

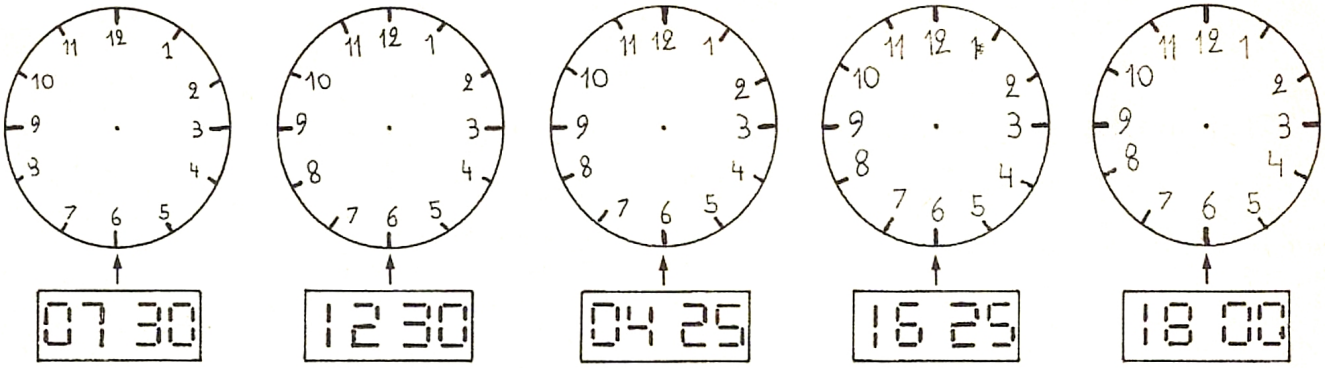

2 Si c'est le jour, dessinez un ☼, si c'est la nuit ☾ dans la case en face de l'heure.

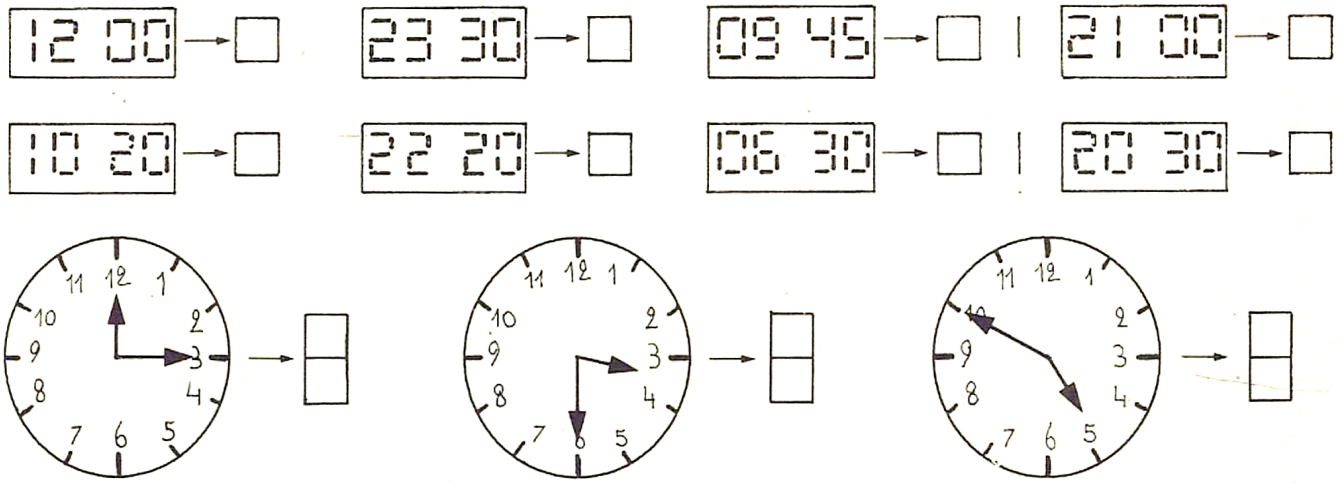

3 Mettez l'heure correspondante.

Je me lève | Je pars à l'école | J'entre en classe | C'est la récréation | Je reviens chez moi

4



Combien de temps a-t-il attendu ?

_____

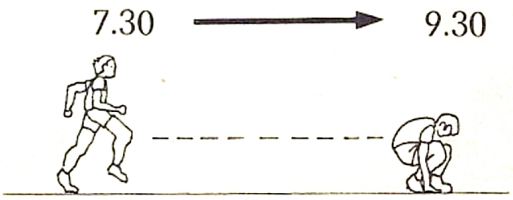

Combien de temps a-t-il couru ?

_____

18 Au quatrième top



5 **Au quatrième top, il sera exactement...**
Mettez les montres à l'heure.

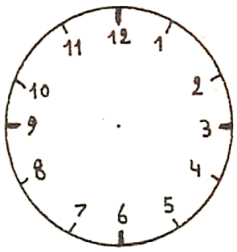

Douze heures vingt minutes

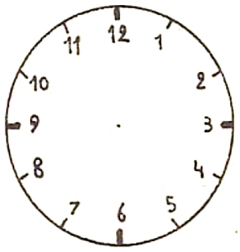

Dix huit heures trois minutes



6 **Comme c'est bizarre !**

Quelle heure est-il sur ces deux montres ?

_____

Si on ne lit que les chiffres romains (V, VI, etc.), peut-on donner l'heure ?

_____

7 **Entourez en ROUGE les montres que portaient ces personnages, il y a longtemps.**



19 Où et quand ?



19 Où et quand ?

Une journée comme les autres. Mettez les aiguilles sur l'heure correspondante. A quelle image correspond chaque texte ? Attention. Ce n'est pas dans l'ordre.

Heure			Image n°
Exemple			
a		A six heures et quart, le réveil sonne	1
b		A sept heures dix, Julie est encore dans son bain	
c		A six heures trente, elle prend son petit déjeuner	
d		A neuf heures dix, elle passe sur le pont	
e		Il est dix huit heures et le train ne va pas tarder à arriver	
f		Julie est à la cafétéria à douze heures quinze	
g		Elle aime bien traverser le square vers dix sept heures quinze	
h		A dix sept heures trente, elle arrive gare d'Orsay	
i		Julie et son mari sont encore dans un embouteillage à 19 h	
j		On dîne à huit heures du soir	
k		A dix huit heures vingt Julie retrouve son mari	
l		A cinq heures de l'après-midi le travail est terminé	
m		Julie a tapé une lettre importante à onze heures	
n		A neuf heures quinze, Julie attend l'ascenseur	
o		Julie sort de chez elle à huit heures du matin	
p		Elle arrive à Paris-Austerlitz à 9 heures juste	
q		Le train part d'Orléans à 8 h 15	
r		A sept heures moins vingt Julie joue avec son chien	

20 La terre, le soleil et les planètes

La Terre tourne autour du Soleil comme une toupie. Elle fait un tour sur elle-même en 1 jour (ou 24 heures). La Terre fait en plus une immense ronde autour du Soleil. Elle met 1 an (ou 365 jours) pour faire un tour de ronde.



1 Complétez.

1 Pour faire le tour du Soleil, la Terre met _____ ou _____

2 Pour faire un tour sur elle-même, la Terre met _____ ou _____

3 Combien de fois la Terre a-t-elle tourné sur elle-même :

a) depuis hier ? _____ c) depuis dimanche dernier ? _____

b) depuis avant-hier ? _____ d) depuis mercredi dernier ? _____

4 Combien de fois la Terre a-t-elle tourné autour du Soleil

a) depuis que tu es né ? _____

b) depuis que ton papa est né ? _____

c) depuis que ta maman est née ? _____



20 La Terre le Soleil et les planètes

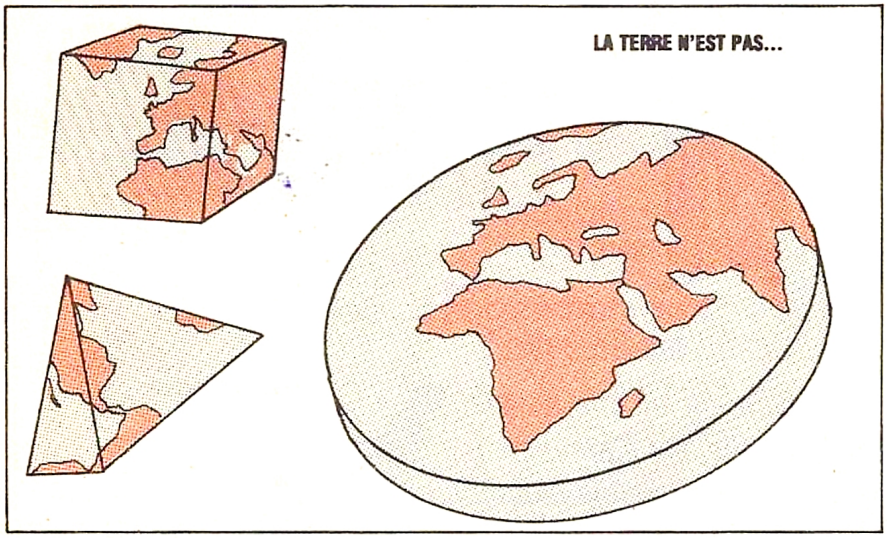

2 Répondez par VRAI ou FAUX.

1 Mercure est la planète la plus proche du soleil _____

2 La Terre est plate _____

3 Vénus tourne autour de Saturne _____

4 La Lune tourne autour de la Terre _____

5 La Terre a la forme d'un cube _____

6 Neptune est la planète la plus éloignée du Soleil _____

7 Vénus tourne entre Mercure et la Terre _____

8 La Terre est ronde _____

9 L'Équateur sépare la Terre en deux _____

10 Saturne est au centre du système solaire _____

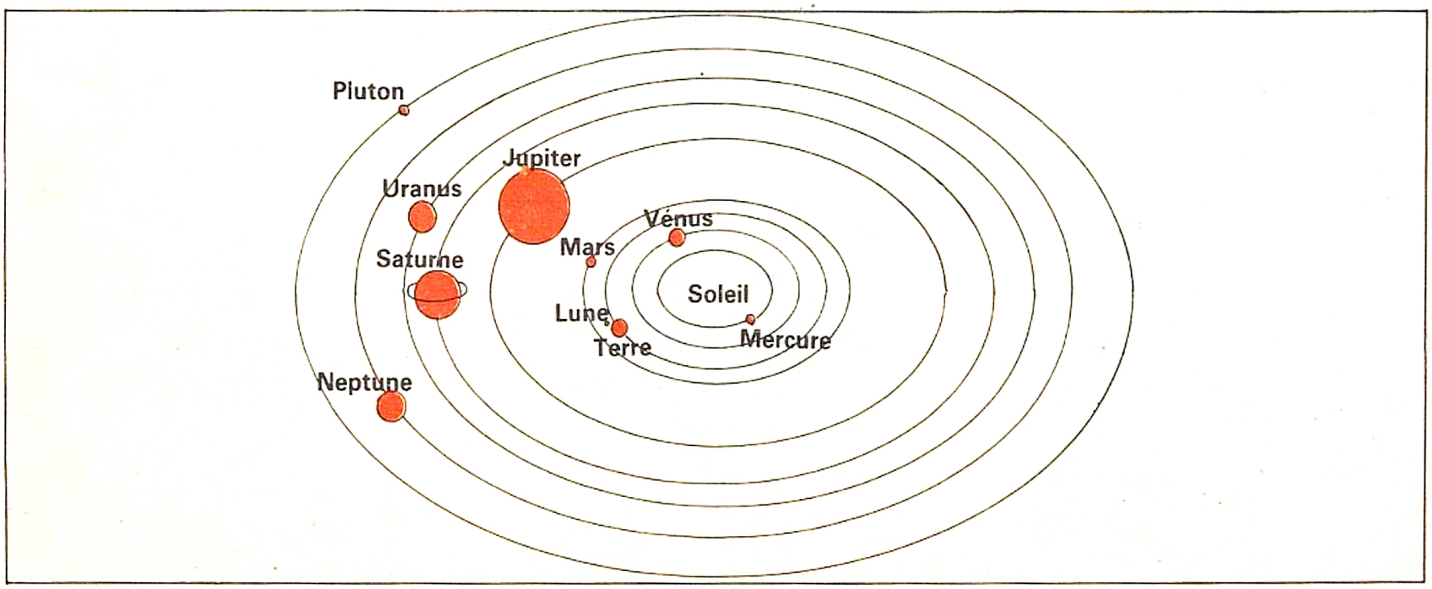

21 A travers le temps









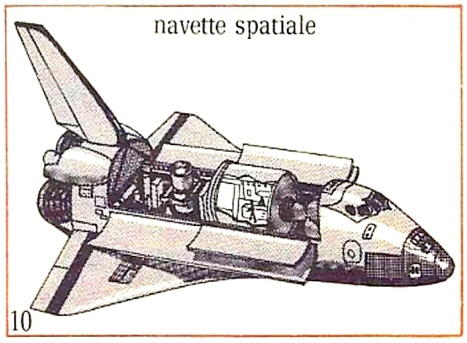

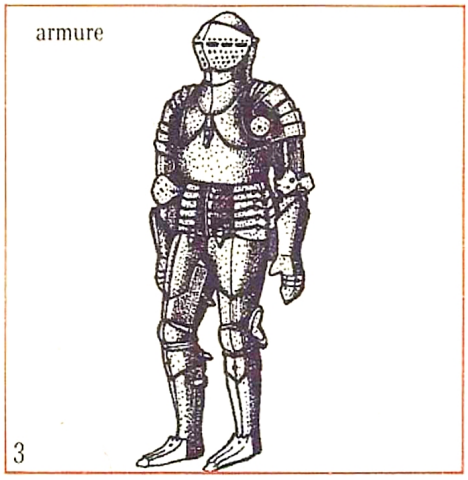

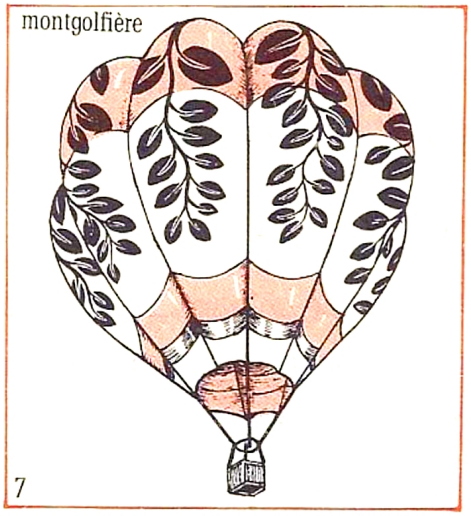



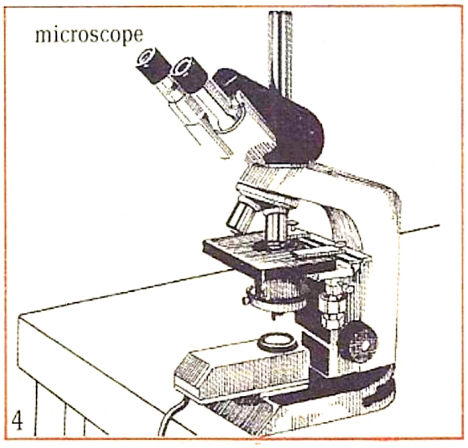

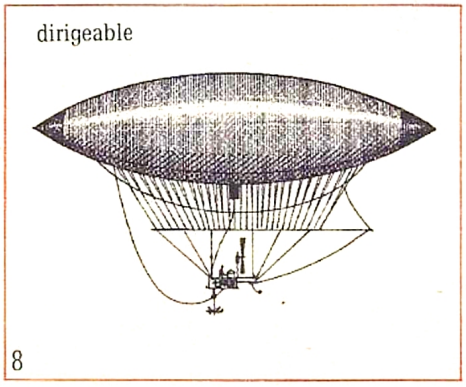

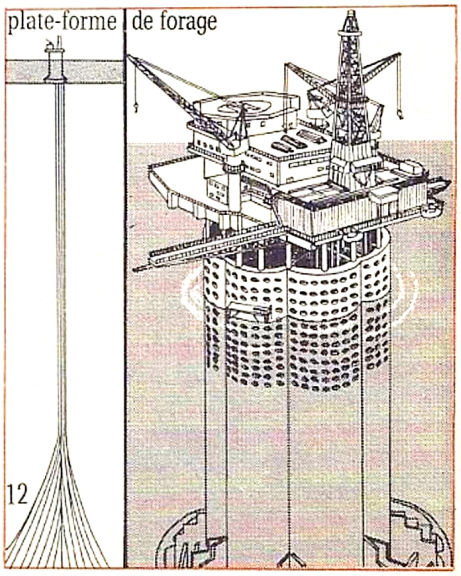

21 A travers le temps

1 Ecrivez le mot qui correspond à la définition.

1 _____ : les cosmonautes peuvent y vivre.

2 _____ : arme utilisée au Moyen Age.

3 _____ : distrayait les seigneurs au Moyen Age.

4 _____ : construite en 1783 par les Frères Montgolfier.

5 _____ : vêtement de métal des chevaliers du Moyen Age.

6 _____ : rend visible les microbes.

7 _____ : permet de chercher le pétrole en mer.

8 _____ : les hommes de la préhistoire y vivaient.

9 _____ : 2 personnes peuvent pédaler en même temps.

10 _____ : les anciens Égyptiens embaumaient les morts.

11 _____ : immense animal préhistorique.

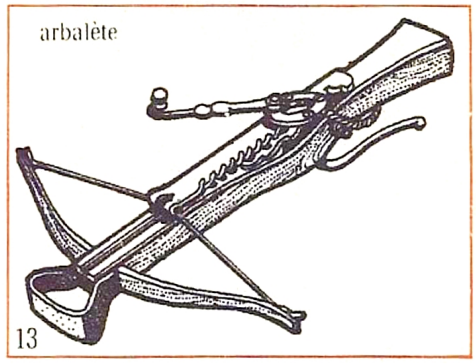



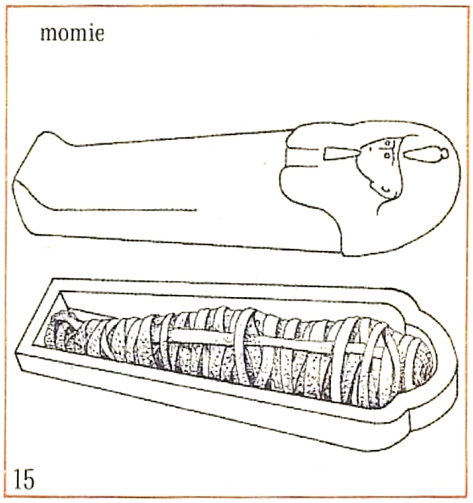



2 Rétablissez l'ordre, du plus ancien au plus récent.

1 7, 10, 8, 5, 2



le plus ancien — le plus récent

2 15, 13, 16, 11, 12

3 6, 1, 13, 8, 14



3 Trouvez trois n^{os} de vignettes qui correspondent à des époques.

1 Maintenant ○ ○ ○

2 Il y a longtemps ○ ○ ○

3 Il y a très, très longtemps ○ ○ ○

22 Ces bêtes... (jeu)









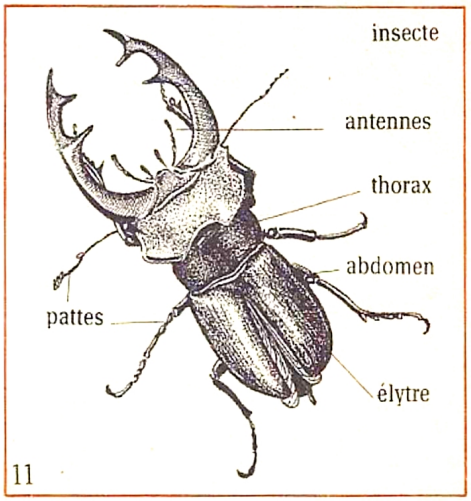

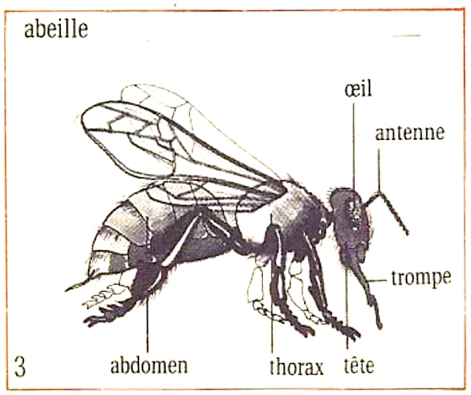

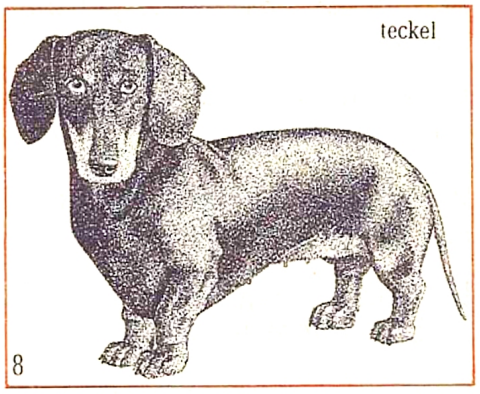





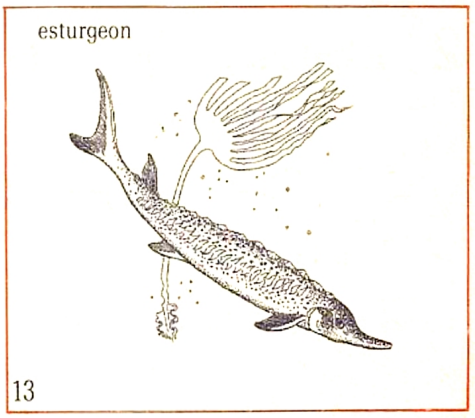



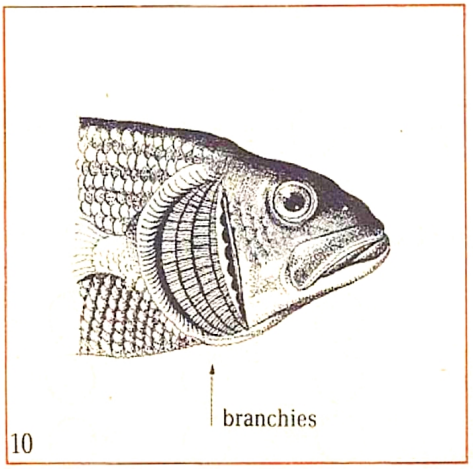



22 Ces bêtes... (jeu)

1 Écrivez le numéro de la vignette correspondante.

a) ◯ C'est celui qui ressemble le plus à l'homme

b) ◯ Le petit se met dans la poche de la mère

c) ◯ Avec une bosse, ce serait un dromadaire

d) ◯ Toute petite, ce n'était qu'un têtard

e) ◯ Elle dort tout l'hiver

f) ◯ Sa piqûre est souvent mortelle

g) ◯ Avec du pollen elle fait du miel

h) ◯ C'est avec ses œufs qu'on fait du caviar

i) ◯ Ce reptile n'est pas dangereux

j) ◯ Ses petites pattes le rendent jaloux du lévrier

k) ◯ « Je te couperai la tête... »

l) ◯ C'est par elles que les poissons respirent

m) ◯ Ses élytres font un bruit métallique

n) ◯ On dirait un âne en pyjama rayé

o) ◯ Certains ont gardé le bruit de la mer

p) ◯ C'est le plus rapide de tous les chiens

q) ◯ Sa peau fait des sacs magnifiques

r) ◯ Ce n'est pas un animal





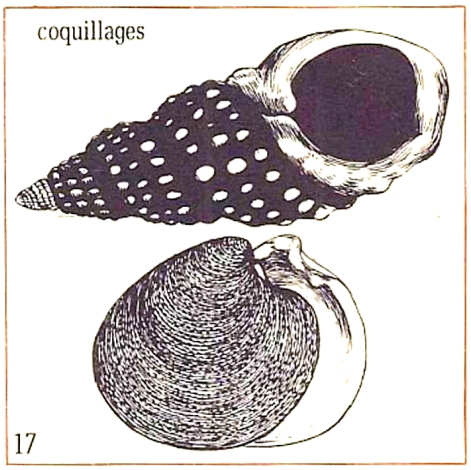

2 Ils pondent des œufs.
Écrivez les numéros des vignettes correspondantes.

_____

_____

3 Ils donnent naissance à des petits vivants.
Écrivez les numéros des vignettes correspondantes.

_____

_____



RÉPONSES AUX QUESTIONS

1 Grandir / Quel âge avez-vous ? - *Exercice 1* - 1 : 4 avril 1974 / 2 : oui / 3 : a - 2 ans ; b - 3 ans et demi ; c - presque 5 ans ; d - 6 ans et demi / 4 : oui / 5 : 4 ans.

2 Les animaux et leurs petits - *Exercice 1* - a : la laie / b : la truie / c : la jument / d : la biche.
Exercice 2 - 1 : d / 2 : a / 3 : b / 4 : h / 5 : f / 6 : c / 7 : g / 8 : e.
Exercice 3 - 1 : faux / 2 : vrai / 3 : vrai / 4 : faux / 5 : faux.

3 Le temps qui passe - *Exercice 1* - b : 3 / c : 2 / d : 9 / e : 5 / f : 6 / g : 4 / h : 8 / i : 7.
Exercice 2 - 3 dans le premier rond, puis 1, puis 2.
Exercice 4 - a : F / b : PA / c : PR / d : PA / e : F / f : PR.
Exercice 5 - 3 dans le premier rond, puis 1, puis 2.

4 Qui est où ? - *Exercice 1* - Julie : 2 / Diego : 5 / Claude : 6 / Sophie : 3 / Sébastien : 7 / Kader : 4 / Pierre : 8 / Sylvie : 9 / Rachel : 11 / Marie : 10 / Yvon : 12 / Olivier : 16 / Anne : 15 / Luce : 14 / Robert : 13 / Samy : 17 / Joan : 18 / Stéphane : 19 / Ali : 20.
Exercice 2 - 1 : Diego / 2 : Marie / 3 : Kader / 4 : Julie / 5 : 20 / 6 : oui / 7 : non / 8 : 4.
Exercice 3 - 1 : vrai / 2 : faux / 3 : vrai / 4 : vrai / 5 : faux / 6 : vrai / 7 : vrai / 8 : faux / 9 : vrai / 10 : faux / 11 : faux / 12 : vrai / 13 : faux / 14 : vrai / 15 : vrai / 16 : vrai / 17 : vrai / 18 : faux / 19 : vrai / 20 : faux.

5 Petit ou grand ? Je regarde... - *Exercice 1* - 1 : e / 2 : a / 3 : a / 4 : b, d / 5 : c.

6 En voyage - *Exercice 1* - a : avant / b : après / c : avant / d : avant / e : après / f : après / g : avant / h : après / i : après / j : avant / k : avant / l : après.
Exercice 2 - a : vrai / b : vrai / c : vrai / d : vrai / e : vrai / f : vrai.
Exercice 3 - a : vrai / b : vrai / c : vrai / d : faux / e : faux / f : faux.
Exercice 4 - a : oui / b : non.

7 On y va ? - *Exercice 1* - 1 : au grand café / 2 : rue Curie n° 6 / 3 : au stade / 4 : au-dessus de la Loire, changer à Liberté ; ligne n° 9 / 5 : de la gare au stade ; Jeanne d'Arc, Blanche, Poste / 6 : b : à gauche ; c : à droite ; d : à gauche ; e : à droite / 7 : rue des Deux Ponts.

8 Dans la rue - *Exercice 1* - Il faut barrer a : devant / b : à gauche / c : au-dessus / d : à droite / e : derrière / f : droite / g : au-dessous / h : au-dessous / i : derrière / j : à gauche / k : à droite / l : à gauche.

9 Bien vu ! (1) - *Exercice 1* - 1 Il faut barrer a, b, puis a / 2 Il faut mettre une croix aux phrases a, c, d.
Exercice 2 - 1, b : vrai / 2, b : vrai / 3, a : vrai / 4, a : vrai / 5, b : vrai / 6, a : vrai / 7, b : vrai.

10 Bien vu ! (2) - *Exercice 1* - a : vrai / b : vrai / c : vrai / d : faux / e : ? / f : ? / g : vrai / h : faux / i : vrai / j : ? / k : vrai / l : vrai / m : vrai / n : vrai.

11 Auprès de mon arbre... - *Exercice 1* - 1 : vrai / 2 : vrai / 3 : faux / 4 : vrai / 5 : vrai / 6 : vrai / 7 : faux / 8 : faux / 9 : vrai / 10 : vrai / 11 : vrai / 12 : faux / 13 : vrai / 14 : faux / 15 : vrai.

12 Les animaux se protègent - *Exercice 1* - 1 : c / 2 : d / 3 : e / 4 : b / 5 : e / 6 : g / 7 : a / 8 : f.
Exercice 2 - 1, c : elle rentre dans sa carapace ; 1, d : il se met en boule / 2 : le bœuf musqué / 3 : le tatou / 4 : le scarabée, le doryphore, la coccinelle, etc.
Exercice 3 - Il se protège dans la coquille des autres animaux.

13 De la semaine au mois - *Exercice 3* - 3 : mardi / 4 : samedi / 8 : samedi.
Exercice 4 - Il faut barrer 1 : a, b / 2 : a, c / 3 : b, c.
Exercice 5 - 1 : mercredi 5 janvier / 2 : mercredi 19 janvier.
Exercice 6 - 1 : 30 / 2 : 31 / 3 : 28 ou 29 / 4 : jeudi / 5 : mercredi / 6 : 22 septembre / 7 : 10 septembre / 8 : 23 septembre / 9 : 4 / 10 : 4 / 11 : St-Jérôme.
Exercice 8 - 31 jours : janvier, mars, mai, juillet, août, octobre, décembre / 30 jours : avril, juin, septembre, novembre / 28 ou 29 jours : février.

14 A la maison - *Exercice 1* - Mettre une croix à : a, b, c, d.
Exercice 2 - Mettre une croix à : a, b, d.
Exercice 3 - Mettre une croix à : a, e.
Exercice 4 - Mettre une croix à : a, b, c, d, e.

15 A travers le calendrier - *Exercice 1* - Sophie : 25 mai / Juliette : 30 juillet / Richard : 3 avril / Nestor : 26 février / Alain : 9 septembre / Rémi : 15 janvier / Inès : 10 septembre / Lucie : 13 décembre.
Exercice 2 - 1 : faux / 2 : vrai / 3 : vrai / 4 : faux / 5 : vrai / 6 : faux / 7 : vrai / 8 : vrai / 9 : faux / 10 : faux / 11 : vrai / 12 : vrai.
Exercice 3 - 1 : mai / 2 : décembre.
Exercice 4 - 1 : 15 février / *2 :* 6 mars / 3 : 19 février.

16 Pluie - Orage - Neige - Page gauche - *Exercice 1* - 1 : une étincelle / 2 : un éclair; le tonnerre / 3 : on peut s'électrocuter / 4 : un paratonnerre.
Exercice 2 - la bonne réponse est C.
Page droite - Exercice 1 - En partant du bas : violet, indigo, bleu, vert, jaune, orangé, rouge.
Exercice 3 - sur le sommet des montagnes.

17 Les animaux se déplacent - *Exercice 1* - vrai : 1, 4, 6, 7, 9 / faux : 2, 3, 5, 8, 10, 11.
Exercice 2 - 1 : a et c / 2 : non.
Exercice 3 - a : cheval / b : chevreuil / c : loup / d : merle / e : sanglier.

18 Au quatrième top.

19 Où et quand ? - *Exercice 1* - a : 1 / b : 4 / c : 2 / d : 8 / e : 15 / f : 11 / g : 13 / h : 14 / i : 17 / j : 18 / k : 16 / l : 12 / m : 10 / n : 9 / p : 7 / q : 6 / r : 3.

20 La terre, le soleil et les planètes - *Exercice 1* - 1 : 1 an ou 365 jours / 2 : 1 jour ou 24 heures / 3 : a → 1 fois, b → 2 fois.
Exercice 2 - vrai : 1 - 4 - 7 - 8 - 9 / faux : 2 - 3 - 5 - 6 - 10.

21 A travers le temps - *Exercice 1* - 1 : capsule spatiale / 2 : arbalète / 3 : trouvère / 4 : montgolfière / 5 : armure / 6 : microscope / 7 : plateforme (de forage) / 8 : cité lacustre / 9 : tandem / 10 : momie / 11 : mammouth.
Exercice 2 - 1 : 2, 5, 7, 8, 10 / 2 : 11, 21, 13, 16, 12 / 3 : 6, 13, 8, 14, 1.
Exercice 3 - 1 : 4, 9, 10, 12, 16 / 2 : 3, 5, 7, 8, 13, 14 / 3 : 2, 6, 11, 15.

22 Les bêtes... (jeu) - *Exercice 1* - a, 4 / b, 6 / c, 14 / d, 7 / e, 15 / f, 2 / g, 3 / h, 13 / i, 6 / j, 8 / k, 9 / l, 10 / m, 11 / n, 1 / o, 17 / p, 18 / q, 12 / r, 16.
Exercice 2 - 2, 3, 6, 7, 9, 10, 11, 12, 13, 17.
Exercice 3 - 1, 4, 5, 8, 14, 15, 18.

RÉFÉRENCES PHOTOGRAPHIQUES

Pages

4 docs 1 à 5 ph. Jacques Six
5 doc 6 ph. J.-Claude Chantelat
7 © Dargaud
14 Pierre Poulain
16 Hachette
18 Shostal
19 ph. Fiore/Explorer
20 doc 1 Associated Press
doc 2 Sygma
doc 3 London Musuem
doc 4 Office National Suisse du Tourisme
doc 5 Charbonnier/TOP
doc 6 Cl. Hachette, ph. B.N.
21 doc 7 ph. Ziolo
23 ph. Régnier
24 doc 1 PITCH J. Poulard
docs 2, 3, 4, 5, 6 © Jacques Six
25 doc 7 © Jacques Six
31 © Explorer Boudin
34 doc 1 JACANA
doc 2 © Foto : Eugène Moll - Tierbilder Okapia
doc 3 © Aldo Margiocco
doc 4 © Atlas - photo Patrick Broquet
doc 5 © PITCH S. Cordier
35 doc. 6 Jacques Six
37 ph. Santin
38 W. Marshall

Collection Porte ouverte sur...

Comme les instructions officielles le recommandent, ces livrets sont destinés à *« l'exploitation de l'information et de la documentation »*.

L'élève y est invité à acquérir et exercer des **savoir faire,** en matière de **recherche,** à partir d'un choix de **documents significatifs** et de **textes** dans lesquels il doit découvrir les réponses à une batterie de questions.

Ces livrets sont destinés à constituer en fin d'année un **dossier** réunissant les **connaissances** qu'il n'est pas permis d'ignorer à la fin du cycle élémentaire.

Chacune des 22 doubles pages correspond à une **séquence de travail.** Le maître peut faire travailler ses élèves **individuellement** ou **par groupes** et soit corriger, soit faire pratiquer l'**autocorrection** grâce aux réponses fournies en fin de livret. A partir des résultats obtenus, il est possible de demander aux élèves d'élaborer un texte de **synthèse** qui contribuera à la fois à fixer les connaissances et à parfaire l'expression écrite.

M. OBADIA - A. RAUSCH
J. SANTIN - M.-L. OBADIA

Porte ouverte sur...

- **la géographie,** CM2 / CM1 / CE2,
- **les sciences,** CM2 / CM1 / CE2,
- **l'histoire,** CM2 / CM1 / CE2,
- **l'éveil,** CE1,
- **la grammaire,** CM2 / CM1 / CE2,
- **les recherches documentaires,**
- **les dictionnaires et encyclopédies,**
- **les mathématiques,** CM2 / CM1 / CE2,
- **la micro-informatique.**

Collection dirigée par M. OBADIA et A. RAUSCH.

Dictionnaire Encyclopédique d'Éveil

Un ouvrage de référence



- 3000 noms propres
- 2000 noms communs
- un atlas historique et géographique de 27 pages
- des planches thématiques

9 782010 093302

11/4773/5
Imprimé en France
SUD-OFFSET - 94 RUNGIS